Lumière et ombres

Corrigé

Questionnaire - cycle 2

1. Quelles sont les sources de lumière que tu peux voir sur ces dessins ?
Découpe, puis colle les étiquettes dans la bonne colonne.

Produit de la lumière	Ne produit pas de lumière
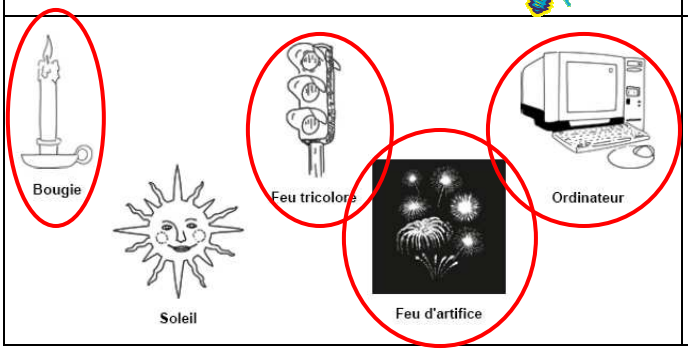	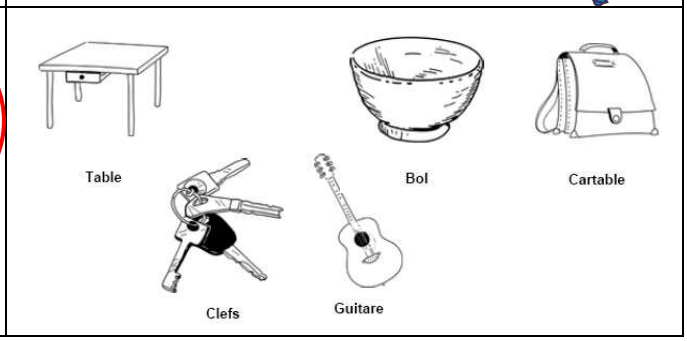

2. ▲ Parmi ces sources lumineuses, quelles sont celles fabriquées par l'homme ? Colorie-les.

3. Colorie le soleil qui convient (regarde bien l'ombre).

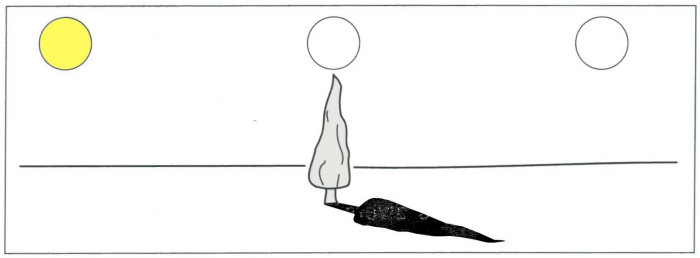

4. Sur le dessin, relie par un trait chacune des ombres à « sa lampe ».

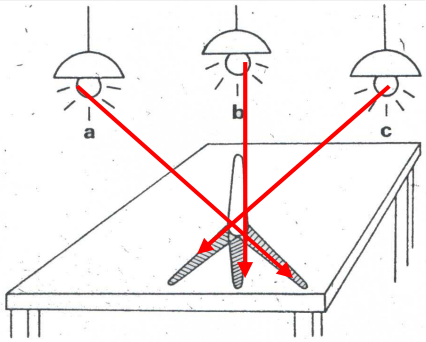

5. Ecris « vrai » ☺ si le dessin est juste ou « faux » ☹ s'il est inexact. Et s'il est faux, corrige-le.

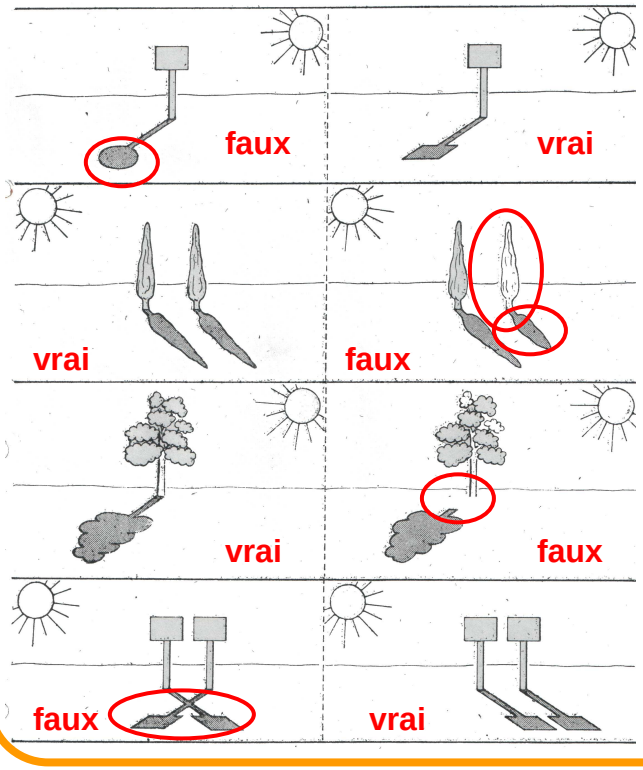

6. Regarde l'ombre sur l'écran et marque « vrai » ☺ ou « faux » ☹.

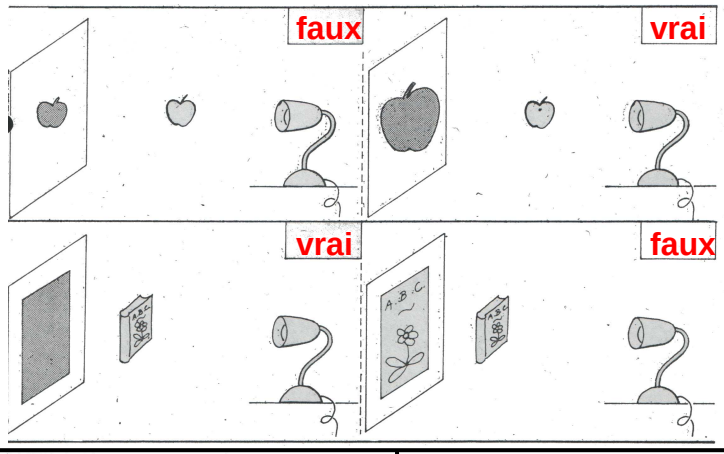

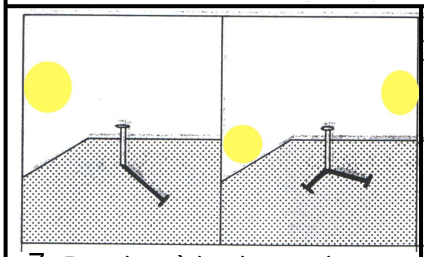

7. Dessine, à la place qui convient, la ou les sources de lumière.



8. Dessine les ombres de la maison et des arbres.

Questionnaire élaboré par le Centre de ressources en sciences d'Auxerre